Derivační článek RC a ukázka jeho působení na signál obdélníkového průběhu

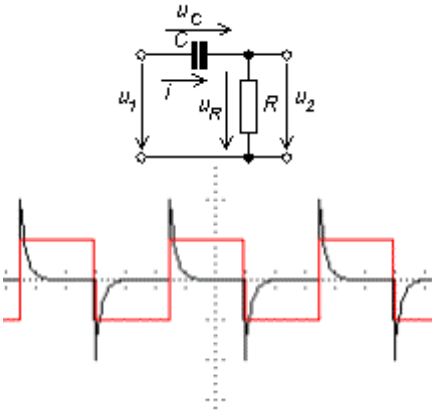

Zpracujte frekvenční charakteristiku

F	50	100	120	200	300	500	800	1k	1k5	2k	3k	5k	8k	10k	15k	20k	30k	50k	100k
U2																			

Integrační článek RC a ukázka jeho působení na signál obdélníkového průběhu

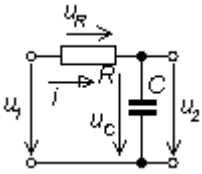

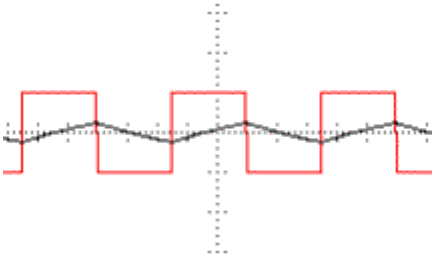

Zpracujte frekvenční charakteristiku

F	50	100	120	200	300	500	800	1k	1k5	2k	3k	5k	8k	10k	15k	20k	30k	50k	100k
U2																			